1 世界の姿

月　　日

得点　　/100点

1 東京からの距離と方位が正しく表された右の地図をみて，あとの問いに答えなさい。〈(3)8点，他5点×4〉

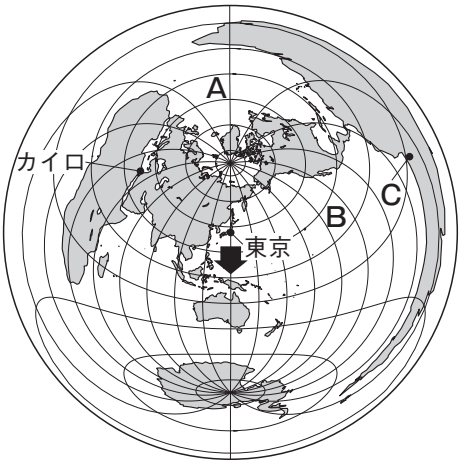

□(1) 地図中の東京からみたカイロのおよその方位にあてはまるものを，次から1つ選び，記号で答えよ。

ア 南西　**イ** 南東
ウ 北西　**エ** 北東

[　　]

(2) 地図中のAとBの大洋名を，それぞれ書け。

□A [　　]　□B [　　]

□(3) 地図中のCの都市周辺の地域について，次の文中の□にあてはまる内容を簡単に書け。

> この地域は，赤道に近いにもかかわらず，□ために昼夜の寒暖の差が大きく，また紫外線も強いので，古くからこの地域でくらしてきた人々は，ポンチョとよばれる服や帽子を着用している。

[　　]

□(4) 東京から地図中の ➡ の向きに直進したとき，最初に到達する大陸名を書け。

[　　大陸]

2 次の問いに答えなさい。〈5点×6〉

(1) 次の文中の①にあてはまるものを，あとから1つ選び，記号で答えよ。また，②にあてはまる語句を書け。

> 日本や①のように，国土が海に囲まれている国を②という。

ア ニュージーランド　**イ** ドイツ
ウ ブラジル　**エ** カナダ

□① [　　]　□② [　　]

□(2) 次の文中の□にあてはまる語句を書け。

> 世界を6つの州に区分したとき，ロシア連邦はアジア州と□州に属する。

[　　]

□(3) 世界で最も面積が小さい国の国名を書け。

[　　]

(4) 次の文中の□にあてはまる語句をそれぞれ書け。

> 地球上における位置は，緯度と経度を使って表す。緯度は①に平行に引かれた緯線をもとに，南北に90度までで示される。経度は北極と南極を結んだ経線をもとに，イギリスのロンドンを通る②を経度0度として東西に180度までで示される。

□① [　　]　□② [　　]

3 面積が正しく表された次の地図を見て，あとの問いに答えなさい。 〈6点×7〉

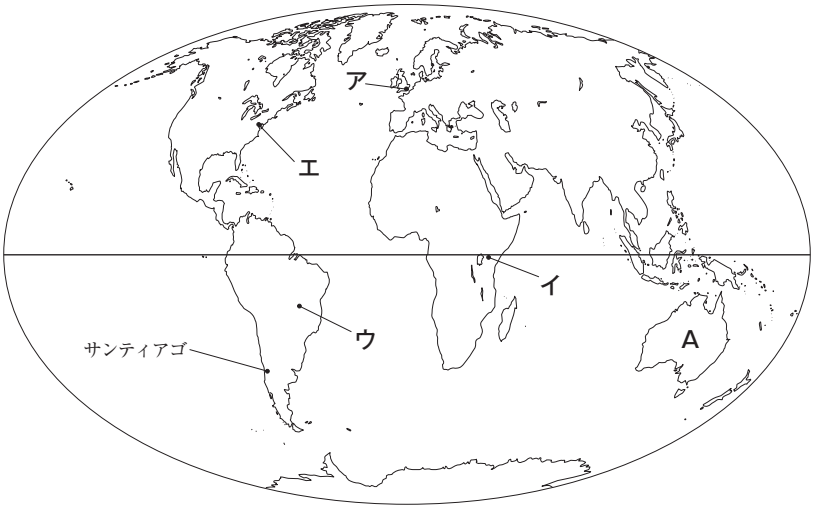

□(1) この地図について述べていることとして，正しいものを次から１つ選び，記号で答えよ。

ア 面積が正しいので，ある地点からある地点までの距離も正しい。

イ 面積は正しいが，形は赤道からはなれるほどゆがんで表される。

ウ 面積が正しいので，ある地点からある地点までの方位も正しい。

エ 面積は正しいが，赤道が通る位置は，ずれて表示される。 [　　]

(2) 右のグラフは，世界の陸地の面積における大陸ごとの割合を示している。上の地図を参考に，グラフ中①～③にあてはまる国名をそれぞれ書け。



（「理科年表」2020年版ほか）

□① [　　大陸]

□② [　　大陸]

□③ [　　大陸]

□(3) 地図中に示したサンティアゴを首都とする国の形として正しいものを，次から１つ選び，記号で答えよ。

ア

イ

ウ

エ

[　　]

□(4) 地図中**A**の国の国旗の一部のもととなったユニオンジャックを国旗としている国の首都を，地図中**ア**～**エ**から１つ選び，記号で答えよ。 [　　]

□(5) 右の表について述べた文として，正しいものを次から１つ選び，記号で答えよ。

	人口の多い国 上位５か国(2020)	ＧＤＰの多い国 上位５か国(2018)	高齢化率の高い国 上位５か国(2020)
1位	中国	アメリカ合衆国	日本
2位	インド	中国	イタリア
3位	アメリカ合衆国	日本	ポルトガル
4位	インドネシア	ドイツ	フィンランド
5位	パキスタン	イギリス	ギリシャ

（「世界国勢図会」2020/21年版より）

ア 高齢化率の高い国上位５か国はアジア州とオセアニア州の国である。

イ 人口の多い国上位５か国はすべてアジア州の国である。

ウ ＧＤＰの多い国はアジア州の国と北アメリカ州の国がしめている。

エ ３つの項目すべてにおいて，アフリカ州の国は入っていない。 [　　]

2 日本の姿

月　日
得点
/100点

1 次のまとめをみて，あとの問いに答えなさい。〈5点×5〉

> ①日本列島は，北海道から沖縄までおよそ［　　］kmで，弓のようにのび，その②国土面積は約［ a ］万km²である。南北は北緯20度から北緯［ b ］度の間で，イタリアやアメリカ合衆国とほぼ同じ緯度に位置し，東西は東経122度から154度の間で，［ c ］とほぼ同じ経度に位置する。

□(1) 下線部①について，日本海をはさんで西側に位置する大陸を何というか，書け。
［　　大陸］

□(2) ［　　］にあてはまるものを，次から１つ選び，記号で答えよ。
ア 1,500　イ 2,000　ウ 3,000　エ 4,500　［　　］

□(3) 下線部②について，日本の最東端の島にあたるものを，次から１つ選び，記号で答えよ。
ア 与那国島　イ 沖ノ鳥島
ウ 択捉島　エ 南鳥島　［　　］

□(4) ［ a ］，［ b ］にあてはまる数字と語句の組み合わせとして正しいものを，次から１つ選び，記号で答えよ。
ア a－38　b－36　イ a－38　b－46
ウ a－380　b－36　エ a－380　b－46　［　　］

□(5) ［ c ］にあてはまるものを，次から１つ選び，記号で答えよ。
ア スペイン　イ イラン　ウ ブラジル　エ オーストラリア
［　　］

2 次の問いに答えなさい。〈6点×6〉

(1) 次の文をみて，あとの問いに答えよ。

> 国家の主権がおよぶ範囲を［ a ］という。［ a ］にはX領土，［ b ］，Y領海があり，さらに沿岸から200海里の海域において，沿岸国は，天然資源の探査，開発，保存や管理などの権利を有している。この海域のうち，領海を除く海域を［ c ］という。

① 文中の［　　］にあてはまる語句を書け。
□a［　　］　□b［　　］　□c［　　］

□② 文中の下線部Xについて，日本の領土を不法に占拠したり，領有権を主張したりしている国と，領土の組み合わせとして正しいものを，次から１つ選び，記号で答えよ。
ア 尖閣諸島－中国　イ 竹島－台湾　ウ 択捉島－韓国　エ 沖ノ鳥島－ロシア連邦
［　　］

□③ 文中の下線部Yについて，領海は領土から何海里以内の海域か，書け。
［　　海里］

□(2) 東京の時刻が１月１日午後３時のとき，東経15度を標準時子午線とするローマの日時にあてはまるものを，次から１つ選び，記号で答えよ。
ア １月１日午前７時　イ 12月31日午後７時
ウ 12月31日午後１時　エ １月１日午後11時　［　　］

3 **右の図をみて，あとの問いに答えなさい。** 〈(3)7点，他5点×4〉

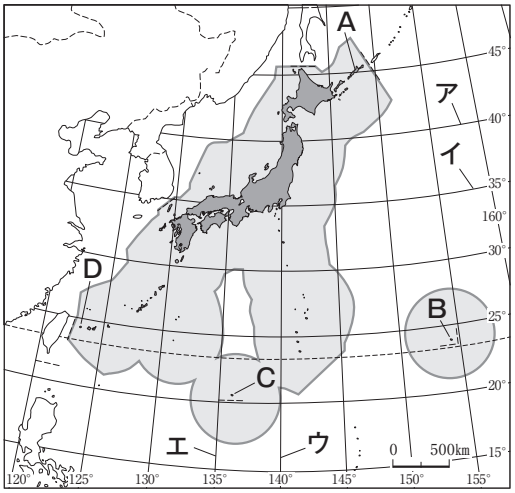

□(1) 日本の標準時子午線を，地図中の**ア**～**エ**から１つ選び，記号で答えよ。 [　　]

(2) 日本の位置を次のように説明するとき，□にあてはまる語句を書け。

> 日本は［ a ］大陸の東側にあり，［ b ］と日本海に囲まれている。

□a [　　]
□b [　　]

□(3) 図中◯は，日本が水産資源や鉱産資源を独占的に調査したり開発したりできる範囲であるが，日本はこの範囲が国土の10倍と他国に比べて広い。それはなぜか，簡単に書け。

[　　]

□(4) 右の写真は，波の侵食から守るために，護岸工事を施された日本の島である。この島を，地図中の**A**～**D**から１つ選び，記号で答えよ。 [　　]



4 **次の問いに答えなさい。** 〈6点×2〉

□(1) 日本を７つの地方に分けたとき，中部地方を示す範囲として正しいものを，次から１つ選び，記号で答えよ。

ア

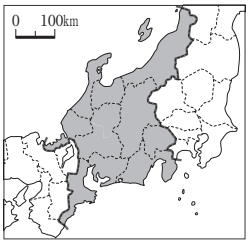

イ

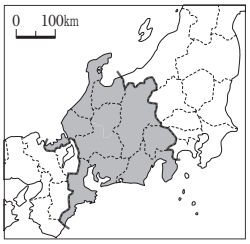

ウ

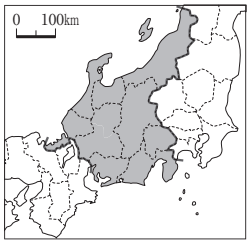

エ

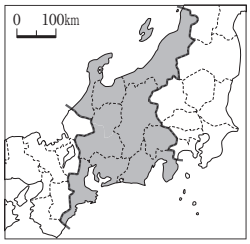

[　　]

□(2) 右の図の**A**～**D**の都道府県について述べた文として，正しいものを次から１つ選び，記号で答えよ。

ア　**A**は東北地方に位置する岩手県で，県庁所在地は県名と同じ岩手市である。

イ　**B**は東北地方に位置する栃木県で，海に面していない内陸の県である。

ウ　**C**は近畿地方にある大阪府で，県庁所在地は府名と同じ大阪市である。

エ　**D**は四国地方にある愛媛県で，県庁所在地は松山市である。
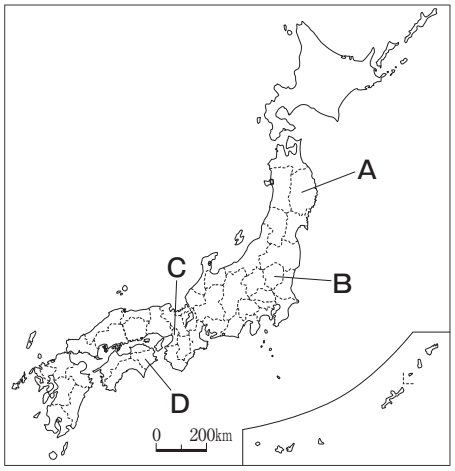
[　　]